الجمهورية الجزائرية الديمقراطية الشعبية

وزارة التربية الوطنية — مديرية التربية لولاية عين الدفلى

متوسطة يحيى جرار

المستوى: الرابعة متوسط — السنة الدراسية2024/2023

الفرض الأول في مادة: العلوم الفيزيائية والتكنولوجيا — المدة: ساعة واحدة

الوضعية الأولى: (10 نقاط)

في حصة الأعمال المخبرية قدم الأستاذ للتلاميذ مجموعة من الأدوات وفوجهم إلى فوجين:

الفوج الأول: دلك فادي قضيب ايبونيت بقطعة صوف ، ثم قربه من كرية ألمنيوم متعادلة كهربائيا، فلاحظ مع زملائه انجذاب هذه الكرية إلى القضيب المدلوك ثم تنافرها.

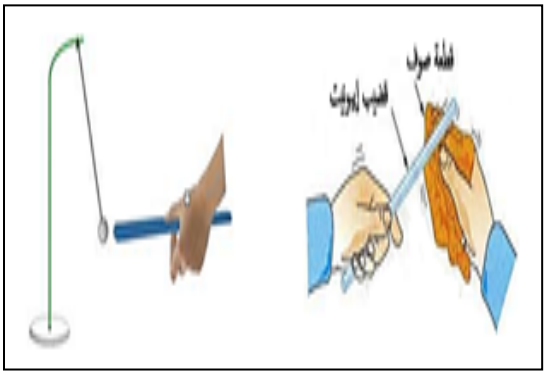

1 - حدد نوع الشحنة التي يحملها قضيب الإيبونيت المدلوك؟

2- ماذا نقصد بأن كرية الألمنيوم متعادلة كهربائيا؟

3 - فسر برسم توضيحي انجذاب وتنافر كرية الألمنيوم إلى قضيب الإيبونيت.

4- حدد طريقة تكهرب كل من قضيب الإيبونيت وكرية الألمنيوم.

الفوج الثاني: قام أيوب بتحقيق التركيبة المقابلة (الوثيقة2)

حيث كرية الألمنيوم مشحونة بشحنة كهربائية سالبة تلامس ساق معدني نهايته موصولة بكاشف كهربائي .

1- حدد طريقة تكهرب الورقتين المعدنيتين .

2- فسر ما حدث للورقتين برسم توضيحي .

الوثيقة (1)

الوثيقة (2)

الوضعية الثانية: (10 نقاط)

تبين التركيبة التالية، تجربة لظاهرة فيزيائية لإنتاج التيار الكهربائي:

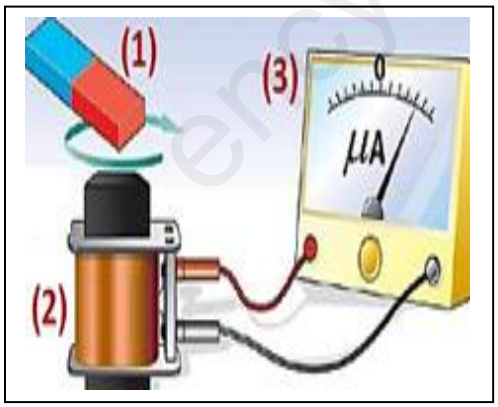

1- سم الظاهرة التي تحققها هذه التركيبة؟

2- حدد طبيعة التيار الناتج؟ اعط رمزه.

3- سم العناصر المرقمة مع ذكر دور كل عنصر.

4- بغرض معاينة التوتر الكهربائي بين طرفي هذا التركيب، استعملنا راسم الاهتزاز المهبطي وأدرنا العنصر (1) بسرعة منتظمة فتحصلنا على البيان التالي:

www.ency-education.com

أ) - ما نوع التوتر الكهربائي المشاهد؟ برر اجابتك.

ب) - احسب التوتر الأعظمي U_{max} ثم استنتج التوتر المنتج U_{eff} .

ج) - كم مرة تكرر المنحنى في هذه الوثيقة؟

أعط عدد تكراره خلال ثانية واحدة، كيف نسمي هذا التكرار؟

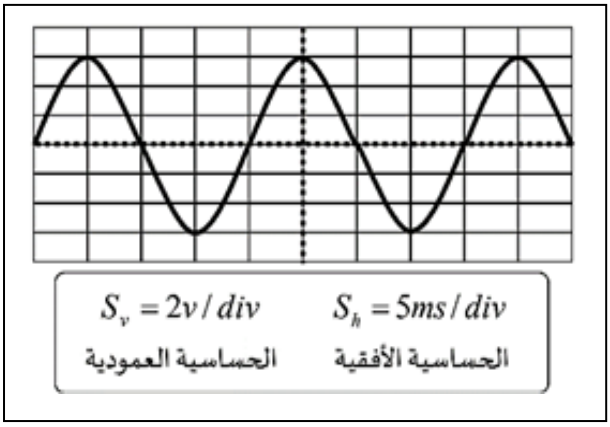

حظ موفق للجميع

www.ency-education.com